Tests de compétence
Calcul mental I
Longueurs et mesures

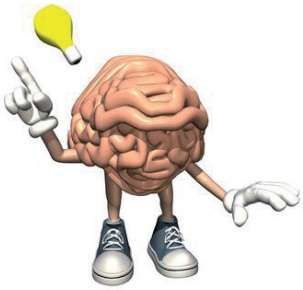

Inscris le montant total des euros !

1

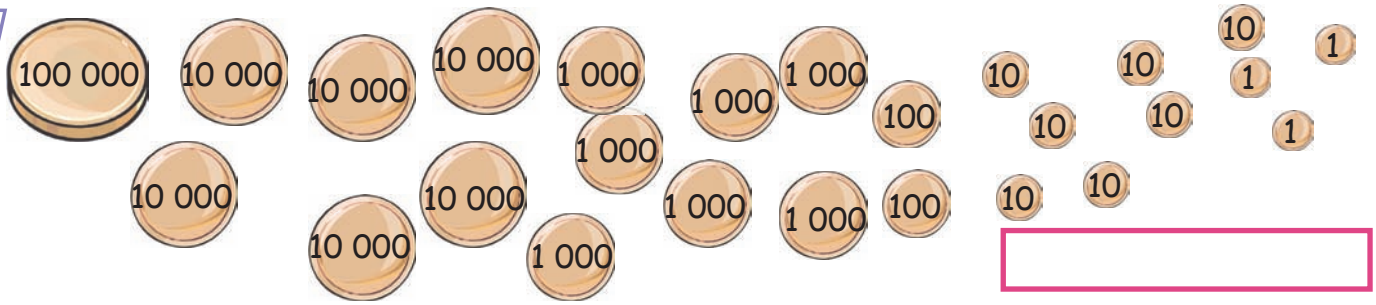

2

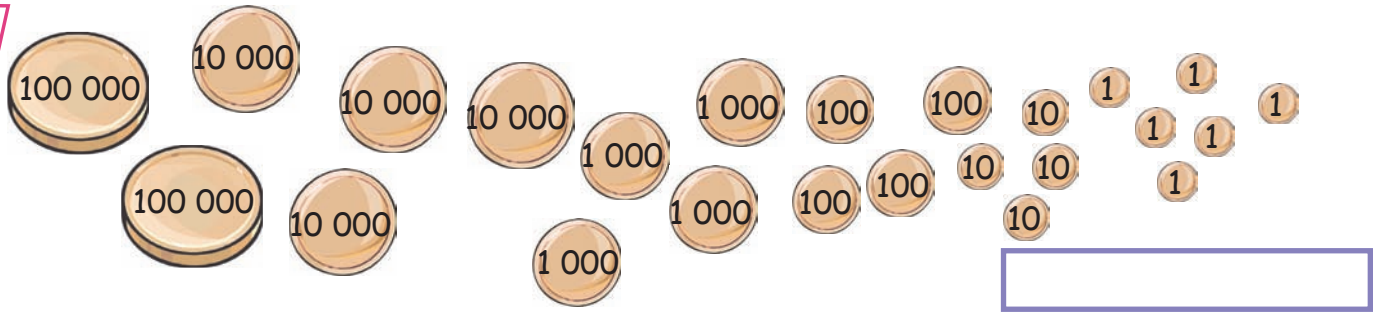

Calcule mentalement et indique plusieurs unités de mesures !

1

10 cm - 3 mm = _____

2 kg - 30 g = _____

5 m - 29 cm = _____

73 g + 70 dag = _____

3 m - 40 cm = _____

9 kg - 80 g = _____

2

_____ + 380 m = 1 km

_____ g - 4 dag = 320 g

_____ dag - 20 g = 610 g

_____ + 19 m = 19 km

_____ - 135 m = 2 865 m

_____ g + 3 dag = 5 dag

3

1203 g + 10 dag = _____

8 kg + 25 dag = _____

4 dm 8 cm + 9 cm = _____

6 cm - 3 mm = _____

3 dm 8 cm + 4 cm = _____

16 kg + 44 dm = _____

JI © Aduis

Les solutions ainsi + de 1000 feuilles pédagogiques différentes sont à télécharger gratuitement sur notre site : **www.aduis.com**. Jetez-y un coup d'œil !